Централизованное тестирование по истории Беларуси, 2014

При выполнении заданий с кратким ответом впишите в поле для ответа цифру, которая соответствует номеру правильного ответа, или число, слово, последовательность букв (слов) или цифр. Ответ следует записывать без пробелов и каких-либо дополнительных символов. Имена правителей в заданиях с кратким ответом необходимо указывать словами: Пётр Первый или Пётр Великий, но не Пётр 1 или Пётр I.

В заданиях, где нужно установить соответствие между двумя столбцами, ответ запишите в виде сочетания букв и цифр, соблюдая алфавитную последовательность букв левого столбца. Некоторые данные правого столбца могут использоваться несколько раз или не использоваться вообще. Например: А1Б1В4Г2.

Если вариант задан учителем, вы можете вписать или загрузить в систему ответы к заданиям с развернутым ответом. Учитель увидит результаты выполнения заданий с кратким ответом и сможет оценить загруженные ответы к заданиям с развернутым ответом. Выставленные учителем баллы отобразятся в вашей статистике.

1. У восточных славян главным богом, который являлся опекуном военного дела, считался:

1) Ярило; 2) Хоре; 3) Перун; 4) Велес.

2. У восточных славян натуральный налог, который платили князю жители подвластной ему территории, назывался:

1) полюдье; 2) дань; 3) заем; 4) гиберна.

3. Определите последовательность событий:

А — княжение Всеслава Брячиславича в Полоцке
Б — поход семи русских князей во главе с киевским князем Мстиславом на Полоцкую землю
В — первые летописные сведения о городе Турове
Г — крещение Руси

1) БВГА 2) ВГАБ 3) АГВБ 4) ГБАВ

4. Самая древняя каменная постройка на территории Беларуси, которая относится к XI в., — это:

1) Нижний замок в Витебске; 2) Каменецкая башня; 3) Борисоглебская (Коложская) церковь; 4) Софийский собор в Полоцке.

5. Белорусско-литовское государство стало называться Великое Княжество Литовское и Русское во время правления князя:

1) Гедимина; 2) Витеня; 3) Ягайло; 4) Миндовга.

6. В результате многочисленных военных конфликтов между Великим Княжеством Литовским (ВКЛ) и Московским государством в конце XV — первой половине XVI в.:

1) к ВКЛ были присоединены многочисленные территории на северо-востоке;
2) ВКЛ вынуждено было заключить союз с Крымским ханством;
3) ВКЛ утратило значительную часть своих восточных территорий;
4) Московское государство получило выход к Балтийскому морю.

7. Определите функцию, которую выполняла сельская громада (община) в ВКЛ:

1) купля-продажа земли; 2) сдача земли в аренду; 3) определение размеров крестьянских налогов; 4) регулирование крестьянского землепользования.

8. На белорусских землях в XVII в. теоретиком барокко в литературе считался:

1) М. К. Сарбевский; 2) М. Стрыйковский; 3) А. Филиппович; 4) А. Олизаровский.

9. Деулинское перемирие между Речью Посполитой и Россией было заключено в:

1) 1583 г.; 2) 1618 г.; 3) 1697 г.; 4) 1721 г.

10. Определите причины образования Речи Посполитой:

а — тяжелое положение ВКЛ в Северной войне
б — желание великокняжеской шляхты получить равные с магнатами политические права
в — стремление католической церкви расширить свое влияние на восточнославянские земли
г — активизация антифеодальных выступлений в ВКЛ и Польше

1) а, б 2) б, в 3) а, в 4) в, г

11. Купцы в ВКЛ во второй половине XVI — XVII в. объединялись в:

1) ордены; 2) юридики; 3) конфедерации; 4) гильдии.

12. Деятельность протестантских общин в ВКЛ способствовала:

1) распространению просвещения и благотворительности в обществе; 2) ликвидации крепостной зависимости крестьян; 3) введению Конституции в Речи Посполитой; 4) превращению кальвинизма в государственную религию.

13. Государственный деятель, канцлер ВКЛ, принимал участие в Ливонской войне, возглавлял комиссию по подготовке Статута ВКЛ 1588 г. — это:

1) А. Чарторыйский; 2) И. Хрептович; 3) И. Потоцкий; 4) Л. Сапега.

14. Прочитайте выдержку из Могилевской хроники.

«...В год 1708... Шведский король, не удовлетворившись такими провиантами и контрибуционными деньгами, сам объехал наилучшие церкви... приказал, чтобы тут же выдали от церкви несколько сотен фунтов серебра... и пригрозил, что, если не выдаст, прикажет все разграбить, а город сжечь. Так, горожане, оставаясь в руках сурового неприятеля, должны были выдать церковного серебра...»

Определите название войны, о которой упоминается в тексте:

1) Ливонская; 2) Смоленская; 3) Северная; 4) война за «Польское наследство».

15. Собор, который в 1738—1750 гг. был перестроен Я. К. Глаубитцем в стиле виленского барокко, находится в городе, который обозначен на картосхеме цифрой:

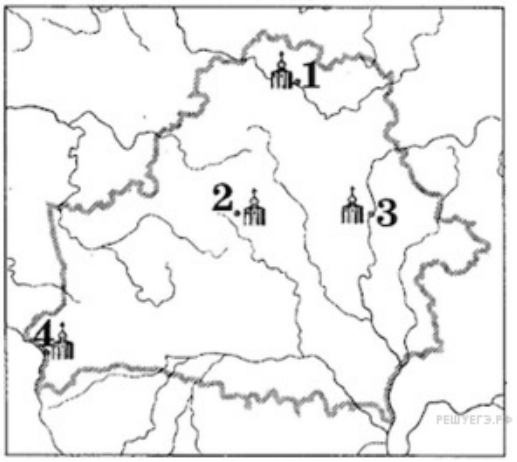

1) 1 2) 2 3) 3 4) 4

16. Тайная организация студентов Виленского университета, созданная в 1817 г., называлась Общество...:

1) лучистых; 2) филоматов; 3) косинеров; 4) диссидентов.

17. В соответствии с крестьянской реформой 1861 г. большинство земель сохранилось в собственности:

1) крестьян; 2) государства; 3) церкви; 4) помещиков.

18. Определите характерные черты промышленного развития Беларуси в первой половине XIX в.:

а — появление фабрично-заводского производства
б — массовое использование труда крепостных крестьян
в — преобладание предприятий добывающей промышленности
г — завершение промышленного переворота

1) а, б 2) б, г 3) а, в 4) в, г

19. На территории Беларуси в конце XIX — начале XX в. наблюдался(-ось, -ась):

1) спад рабочего движения; 2) распространение идей марксизма; 3) активная деятельность народнических организаций; 4) использование революционными организациями исключительно мирных средств борьбы.

20. Промышленность Беларуси во второй половине XIX в. специализировалась на:

1) машиностроении; 2) производстве минеральных удобрений; 3) переработке местного сырья; 4) нефтеперерабатывающем производстве.

21. Во время Первой мировой войны на оккупированной германской армией территории Белорусский народный комитет (БНК) выступил с идеей:

1) восстановления Речи Посполитой; 2) присоединения Беларуси к Польше; 3) автономии Беларуси в составе России; 4) возрождения Великого Княжества Литовского.

22. Представленный на современной фотографии архитектурный памятник конца XVIII — начала XIX в. — это:

1) музей-усадьба И. Репина в Здравнёво; 2) дом-усадьба Ваньковичей в Минске;
3) дворец Румянцевых-Паскевичей в Гомеле; 4) здание банка в Витебске.

23. Определите событие, которое произошло первым из перечисленных:

1) окончательное оформление Белорусской социалистической громады (БСГ);
2) отмена действия Статута ВКЛ 1588 г. в Витебской и Могилевской губерниях;
3) основание в Логойске первого в Беларуси исторического музея; 4) создание Общества филоматов.

24. Временное рабоче-крестьянское советское правительство Беларуси во главе с З. Жилуновичем было сформировано в:

1) 1919 г.; 2) 1920 г.; 3) 1921 г.; 4) 1923 г.

25. Определите один из источников средств для проведения индустриализации в БССР во второй половине 1920-х — 1930-е гг.:

1) иностранные займы и кредиты; 2) продажа за границу художественных ценностей;
3) продажа предприятий в частную собственность; 4) передача земли в аренду.

26. Определите характерную черту образовательной политики БССР в 1930-е гг.:

1) введение всеобщего обязательного начального образования; 2) создание учительских семинарий;
3) расширение влияния церкви на образование; 4) отсутствие высших учебных заведений.

27. Определите событие, которое произошло первым из перечисленных:

1) создание Центрального штаба партизанского движения (ЦШПД); 2) начало второго этапа «рельсовой войны»;
3) создание Ставки Главного Командования; 4) освобождение города Гомеля от гитлеровских захватчиков.

28. Направление удара 1-го Белорусского фронта под командованием К. Рокоссовского во время операции «Багратион» обозначено на картосхеме цифрой:

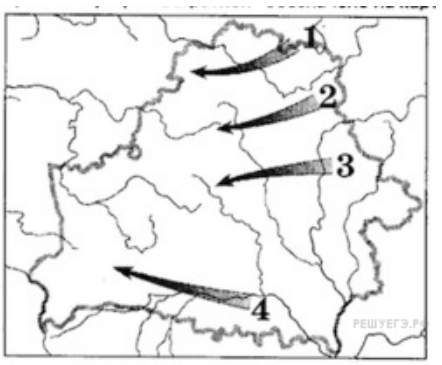

1) 1 2) 2 3) 3 4) 4

29. Прочитайте выдержку из Продовольственного декрета ЦИК БССР (1919).

«... 1. Закупку и продажу хлеба в границах Беларуси частным лицам запретить.
2. Заготовку хлеба осуществлять государству по твердым ценам.
3. Допустить с особого разрешения продотдела заготовку хлеба профсоюзным и рабочим организациям, на каждого едока не более 2 пудов хлеба».

Такое решение было обусловлено:

1) осуществлением политики «военного коммунизма»;
2) необходимостью преодоления последствий миррвого экономического кризиса;
3) переходом к новой экономической политике; 4) введением пятилетних планов развития экономики.

30. Определите фактор, который содействовал ускоренному восстановлению промышленности Беларуси в послевоенный период (1945—1953):

1) использование иностранных инвестиций; 2) развертывание социалистического соревнования;
3) введение разных форм собственности; 4) успешное проведение экономических реформ.

31. Определите характерную черту общественно политической жизни БССР во второй половине 1950-х — первой половине 1960-х гг.:

1) ослабление руководящей роли Компартии; 2) смягчение политического режима;
3) ослабление в обществе роли комсомола и профсоюзов; 4) создание негосударственных средств массовой информации.

32. Определите особенности социально экономического развития БССР во второй половине 1950 х — первой половине 1980-х гг.:

а — сокращение темпов урбанизации в республике
б — постепенное развертывание научно-технической революции
в — создание нефтеперерабатывающей отрасли производства и радиоэлектроники
г — разрешение приватизации мелких предприятий

1) а, б 2) а, г 3) б, в 4) в, г

33. Определите событие, которое состоялось в БССР в 1990 г.:

1) первые выборы Президента БССР; 2) принятие новой Конституции БССР; 3) референдум о сохранении СССР;
4) первые альтернативные выборы депутатов в Верховный Совет БССР.

34. Необходимость выбора между несколькими противоположными возможностями в политике — это:

1) гласность; 2) демократизация; 3) альтернатива; 4) интеграция.

35. Подписание между Беларусью и Россией Договора о создании Союзного государства произошло в:

1) 1991 г.; 2) 1996 г.; 3) 1999 г.; 4) 2006 г.

36. Конфессиональная ситуация в Республике Беларусь во второй половине 1990-х гг. — начале XXI в. характеризуется:

1) отсутствием острых конфликтов на религиозной почве; 2) конфликтами между разными христианскими конфессиями;
3) отсутствием религиозного законодательства; 4) борьбой с религией и насаждением атеизма.

37. В 2000 г. на саммите в Нью-Йорке Республика Беларусь вместе со 189 государствами мира подписала:

1) Устав Организации Объединенных Наций; 2) Парижскую хартию для новой Европы;
3) программу НАТО «Партнерство ради мира»; 4) Декларацию тысячелетия.

38. Статус историко-культурного наследия присвоен занесенному в Книгу рекордов Гиннесса:

1) кинофильму «В августе 44-го...» М. Пташука; 2) «Гобелену столетия» А. Кищенко;
3) полотну «Возвращение на Родину» Н. Селещука; 4) триптиху «За землю, за волю» Г. Ващенко.

39. Запишите цифру, которой на картосхеме обозначено одно из направлений заселения древними славянами территории Беларуси.

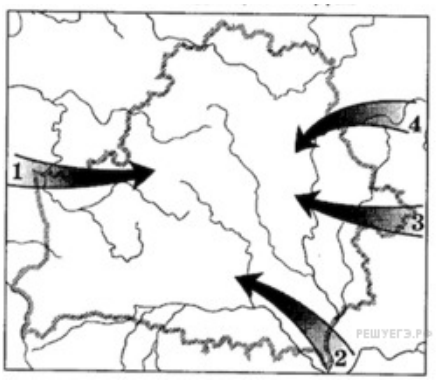

40. Узнайте историческую личность и запишите только имя.

Великий князь литовский (1264—1266(7)), сын Миндовга. Опираясь на пинских князей, смог подчинить себе Новогрудок, а затем при поддержке новогрудчан подчинил Литву и расправился с убийцами отца.

41. Определите три исторических события, которые произошли в первой половине XVII в.:

1) княжение в ВКЛ Сигизмунда II Августа;
2) первый раздел Речи Посполитой;
3) начало казацко-крестьянской войны;
4) интервенция Речи Посполитой в Россию;
5) принятие II Статута ВКЛ;
6) заключение Поляновского мира.

Ответ запишите цифрами в порядке возрастания. Например: 235.

42. Установите соответствие.

Определение

А) ремесленники, которые жили в городе или около него и не входили в ремесленные цехи
Б) название участников отрядов самообороны (в официальных российских документах), которые воевали против российской власти во время войны Речи Посполитой и России в 1654—1667 гг.
В) представители крупного купечества в ВКЛ, которые занимались преимущественно внешней торговлей
Г) верующие-христиане, которые не придерживались господствующего католического вероисповедания в Речи Посполитой

Понятие, термин

1) портачи
2) шиши
3) диссиденты
4) гости

Ответ запишите в виде сочетания букв и цифр, сохраняя алфавитную последовательность букв левого столбца. Например А2Б3В4Г1.

43. Запишите название нелегальной газеты, которая издавалась в виде листовок-прокламаций на протяжении 1862—1863 гг. представителями революционно-демократического течения «красных».

44. Узнайте историческую личность и запишите только фамилию.

Белорусский исследователь, занимался изучением восточнославянской и белорусской археологии, этнографии, фольклористики. Основал в родном городе первый в Беларуси исторический музей.

45. Установите соответствие.

СОБЫТИЕ	ГОД
А) создание Института белорусской культуры (Инбелкульт)	1) 1922
Б) начало освободительного похода Красной Армии в Западную Беларусь и Западную Украину	2) 1925
В) принятие на XIV съезде ВКП(б) курса на социалистическую индустриализацию	3) 1926
Г) принятие постановления «О введении всеобщего обязательного начального обучения»	4) 1939

Ответ запишите в виде сочетания букв и цифр, сохраняя алфавитную последовательность букв левого столбца. Например А2Б3В4Г1.

46. Выберите и запишите термин (понятие), который(-ое) НЕ относится к истории Западной Беларуси в составе Польши:

осадники, прищеповщина, парцелляция, санация.

47. Запишите название областного центра, освобождение которого 28 июля 1944 г. завершило изгнание гитлеровских захватчиков с территории Беларуси.

48. Установите последовательность событий.

А) Присвоение Минску звания «Город-герой»;
Б) законодательное закрепление руководящей и направляющей роли Коммунистической партии Беларуси;
В) введение территориального принципа управления экономикой (совнархозы);
Г) попытка государственного переворота в СССР (августовский путч).

Ответ запишите в виде сочетания букв. Например: ВГАБ.

49. Установите соответствие.

СФЕРА ДЕЯТЕЛЬНОСТИ	ФАМИЛИЯ
А) художник	1) Ж. Алферов
Б) ученый-физик	2) Л. Голуб
В) кинорежиссер	3) И.Лученок
Г) композитор	4) М. Савицкий

Ответ запишите в виде сочетания букв и цифр, сохраняя алфавитную последовательность букв левого столбца. Например А2Б3В4Г1.

50. Определите три характерные черты социально экономического развития Республики Беларусь во второй половине 1990-х гг. — начале XXI в.:

1) сосуществование государственного и частного секторов экономики;
2) подчинение частного сектора экономики государственным интересам;
3) рост экспорта белорусских товаров на внешние рынки;
4) развитие экономических связей только с высокоразвитыми странами;
5) наличие дефицита товаров народного потребления.

Ответ запишите цифрами в порядке возрастания. Например: 245.